**МТ.1.1. Международные (только для морских прибрежных вод до 20 миль от берега) и нормативные правовые акты Российской Федерации, регулирующие безопасность мореплавания**

| № | Вопрос | Иллюстрация |
|---|---|---|
| МТ.1.1.1 | Что означает сигнал - горизонтальное движение флагом - отмашкой, подаваемый с патрульного судна ГИМС? |  |
| МТ.1.1.2 | Какое движение флага-отмашки днем означает сигнал "Прошу остановиться"? | |
| МТ.1.1.3 | При какой мощности подвесного лодочного мотора (двигателя) маломерное судно массой более 200 кг подлежит государственной регистрации? | |
| МТ.1.1.4 | В каком из перечисленных случаев государственный инспектор по маломерным судам имеет право использовать суда, принадлежащие гражданам? | |

| | | |
|---|---|---|
| МТ.1.1.5 | В течение какого срока собственник маломерного судна обязан сообщить в орган государственной регистрации судна о любом изменении сведений, внесенных в судовую книгу? | |
| МТ.1.1.6 | Какова периодичность проведения очередного освидетельствования маломерного судна? | |
| МТ.1.1.7 | Какие первоначальные действия должен осуществлять инспектор по маломерным судам при подходе к остановленному судну? | |
| МТ.1.1.8 | Через сколько дней заявитель, показавший неудовлетворительный результат при проверке теоретических знаний при аттестации на право управления маломерным судном, может быть повторно допущен к проверке теоретических знаний? | |
| МТ.1.1.9 | Какой документ, выдаваемый собственнику маломерного судна, подтверждает право плавания под Государственным флагом Российской Федерации? | |

| | | |
|---|---|---|
| МТ.1.1.10 | В присутствии какого лица осуществляется доступ судоводителя (судовладельца) к маломерному судну, задержанному и находящемуся на специализированной стоянке? | |
| МТ.1.1.11 | Сколько метров составляет ширина береговой полосы водных объектов общего использования? | |
| МТ.1.1.12 | На какие органы (организации) Водным кодексом РФ возложены обязанности об информировании жителей в случае введения запрета (ограничения) на использование маломерных судов на водных объектах общего пользования? | |
| МТ.1.1.13 | Что является Государственной границей Российской Федерации на море? | |
| МТ.1.1.14 | Может ли судно сменить свой флаг во время плавания или стоянки при заходе в порт? | |

| | | |
|---|---|---|
| МТ.1.1.15 | С какого момента приобретенное (построенное) маломерное судно приобретает право плавания под Государственным флагом Российской Федерации? | |
| МТ.1.1.16 | Кто принимает решение об установлении запретных для плавания районов в пределах территориального моря, в которых полностью запрещается или временно ограничивается плавание, и где об этом объявляется? | |
| МТ.1.1.17 | Кто принимает решение об установлении временно опасных для плавания районов в пределах территориального моря, в которых полностью запрещается или временно ограничивается плавание (постановка на якорь) и где об этом объявляется? | |
| МТ.1.1.18 | Выберите правильное определение понятия «район плавания маломерного судна» | |
| МТ.1.1.19 | Каким международным документом регулируется безопасность судоходства маломерных судов во внутренних морских водах и территориальном море Российской Федерации, в морских прибрежных водах до 20 миль от берега | |

| | | |
|---|---|---|
| МТ.1.1.20 | Какова длина морской мили? | ? |
| МТ.1.1.21 | Отметьте, какая единица применяется для измерения скорости морского судна? | ? |
| МТ.1.1.22 | Отметьте правильное значение термина «кабельтов». | ? |
| МТ.1.1.23 | Какому из перечисленных судов должно уступить дорогу парусное судно на ходу? | ? |

| | | |
|---|---|---|
| МТ.1.1.24 | Какому из перечисленных судов должно уступить дорогу парусное судно на ходу? | ? |
| МТ.1.1.25 | При плавании по системе разделения движения, какое из перечисленных судов может использовать зону прибрежного плавания? | ? |
| МТ.1.1.26 | Какое из перечисленных судов подпадает под действие термина судно "на ходу"? | ? |
| МТ.1.1.27 | Отметьте правильное определение понятия «маломерное судно» | |
| МТ.1.1.28 | Отметьте правильное определение понятия «маломерное моторное судно» | |

| | | |
|---|---|---|
| МТ.1.1.29 | Отметьте правильное определение понятия «маломерное парусное судно» | |
| МТ.1.1.30 | Отметьте правильное определение понятия судоводитель (капитан) маломерного судна | |
| МТ.1.1.31 | Отметьте правильное определения понятия «пассажир маломерного судна» | |
| МТ.1.1.32 | Отметьте правильное определения понятия «судоходство маломерных судов» | |
| МТ.1.1.33 | На какой срок выдается свидетельство о классификации маломерного судна после его постройки и (или) освидетельствования? | |

| | | |
|---|---|---|
| МТ.1.1.34 | Отметьте правильное определение состояния защищённости маломерных судов, находящихся на водных объектах, от аварий и происшествий. | |
| МТ.1.1.35 | Что из перечисленного НЕ является основанием прекращения действия права на управление маломерным судном? | |
| МТ.1.1.36 | Кто из перечисленных лиц обязан обеспечивать безопасность плавания маломерного судна? | |
| МТ.1.1.37 | В каком случае необходимо оформление судовой роли на маломерном судне, не укомплектованном штатным экипажем? | |

**МТ.1.2. Правила плавания маломерных судов, включая правила плавания в портах**

| № | Вопрос | Иллюстрация |
|---|---|---|
| МТ.1.2.1 | Какой из изображенных на иллюстрации сигналов не является сигналом бедствия? |   |

| | | |
|---|---|---|
| МТ.1.2.2 | Какое судно несет огни, изображенные на иллюстрации? | 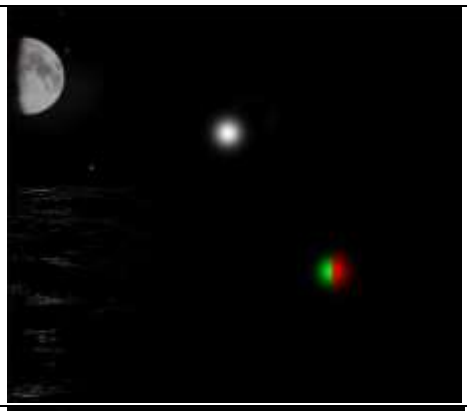 |
| МТ.1.2.3 | Какое судно несет огни, изображенные на иллюстрации? | |
| МТ.1.2.4 | Какое судно несет огни, изображенные на иллюстрации? | |
| МТ.1.2.5 | Какое судно несет огни, изображенные на иллюстрации? | 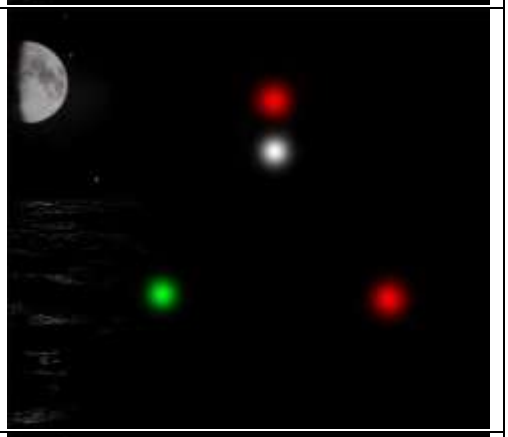 |
| МТ.1.2.6 | Какое судно несет огни, изображенные на иллюстрации? | |

| | | |
|---|---|---|
| МТ.1.2.7 | Что обозначает изображенный на иллюстрации плавучий навигационный знак? | |
| МТ.1.2.8 | Что обозначает изображенный на иллюстрации плавучий навигационный знак? | |
| МТ.1.2.9 | Что обозначает изображенный на иллюстрации плавучий навигационный знак? | |
| МТ.1.2.10 | Что обозначает изображенный на иллюстрации плавучий навигационный знак? | |

| | | |
|---|---|---|
| МТ.1.2.11 | Что обозначает изображенный на иллюстрации плавучий навигационный знак? | |
| МТ.1.2.12 | Что обозначает изображенный на иллюстрации плавучий навигационный знак? | |
| МТ.1.2.13 | Что обозначает изображенный на иллюстрации плавучий навигационный знак? | |
| МТ.1.2.14 | Какое судно несет огни, изображенные на иллюстрации? | |

| | | |
|---|---|---|
| МТ.1.2.15 | Какими работами занято изображенное на иллюстрации судно? | 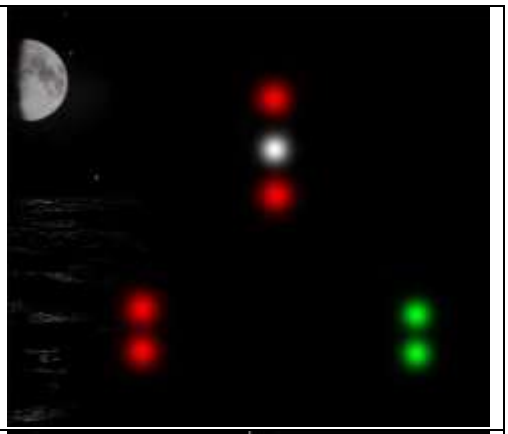 |
| МТ.1.2.16 | Какое из изображенных на иллюстрации судов следует от нас? |  |
| МТ.1.2.17 | Какое судно несет изображенные на иллюстрации знаки? | |
| МТ.1.2.18 | Какое судно несет изображенные на иллюстрации знаки? |  |

| | | |
|---|---|---|
| МТ.1.2.19 | Какое судно несет изображенные на иллюстрации знаки? | |
| МТ.1.2.20 | Какое судно несет изображенный на иллюстрации знак? | |
| МТ.1.2.21 | Какое судно несет изображенный на иллюстрации знак? | |
| МТ.1.2.22 | Какое судно несет изображенный на иллюстрации знак? | |

| | | |
|---|---|---|
| МТ.1.2.23 | Какое судно несет изображенный на иллюстрации знак? |  |
| МТ.1.2.24 | Какое судно несет огни, изображенные на иллюстрации? | |
| МТ.1.2.25 | Какое судно несет огни, изображенные на иллюстрации? | |
| МТ.1.2.26 | Какое из судов, изображенных на иллюстрации, идет на веслах? | 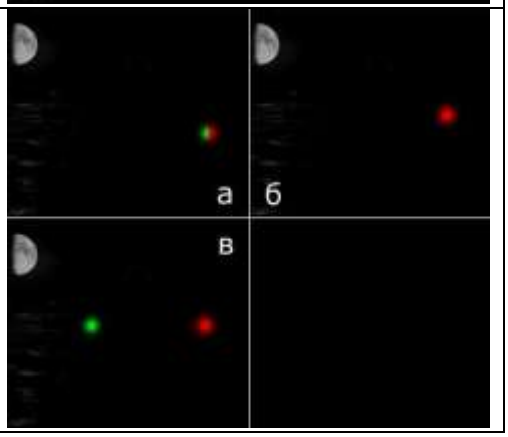 |

| | | |
|---|---|---|
| МТ.1.2.27 | В какой стороне необходимо оставить изображенный на иллюстрации плавучий навигационный знак? | |
| МТ.1.2.28 | В какой стороне необходимо оставить изображенный на иллюстрации плавучий навигационный знак? | |
| МТ.1.2.29 | В какой стороне необходимо оставить изображенный на иллюстрации плавучий навигационный знак? | |
| МТ.1.2.30 | С какой стороны необходимо оставить изображенный на иллюстрации плавучий навигационный знак? | |

| | | |
|---|---|---|
| МТ.1.2.31 | На каком судне выставляется изображенный на иллюстрации сигнал? |  |
| МТ.1.2.32 | На каком судне выставляются изображенные на иллюстрации знаки? | |
| МТ.1.2.33 | В какой стороне необходимо оставить изображенный на иллюстрации плавучий навигационный знак? | |
| МТ.1.2.34 | В какой стороне необходимо оставить изображенный на иллюстрации плавучий навигационный знак? | |

| | | |
|---|---|---|
| МТ.1.2.35 | В каком генеральном направлении следует указанное маломерное судно? | |
| МТ.1.2.36 | С какой стороны необходимо пройти мимо изображенного на иллюстрации плавучего навигационного знака? | |
| МТ.1.2.37 | С какой стороны необходимо пройти мимо изображенного на иллюстрации плавучего навигационного знака? | |
| МТ.1.2.38 | С какой стороны необходимо пройти мимо изображенного на иллюстрации плавучего навигационного знака? | |

| | | |
|---|---|---|
| МТ.1.2.39 | В каком генеральном направлении следует изображенное на иллюстрации маломерное судно? | |
| МТ.1.2.40 | Что обозначает изображенный на иллюстрации сигнал? | |
| МТ.1.2.41 | Что означает изображенный на иллюстрации сигнал, поднимаемый на судне днем? | |
| МТ.1.2.42 | Какое из судов, изображенных на иллюстрации, является парусным? |  |

| | | |
|---|---|---|
| МТ.1.2.43 | Какое судно несет огни, изображенные на иллюстрации? | |
| МТ.1.2.44 | Какое из судов, изображенных на иллюстрации, является лоцманским? |  |
| МТ.1.2.45 | Какое судно несет огни, изображенные на иллюстрации? | |
| МТ.1.2.46 | В какой стороне относительно изображенного на иллюстрации плавучего навигационного знака находится основной фарватер? | |

| | | |
|---|---|---|
| МТ.1.2.47 | Какое из судов, изображенных на иллюстрации, занято дноуглубительными работами? | 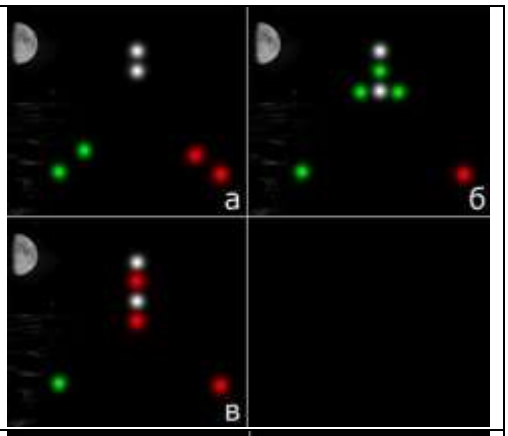 |
| МТ.1.2.48 | На какой иллюстрации изображено судно на воздушной подушке, длиной менее 50 м, которое идет на нас? | 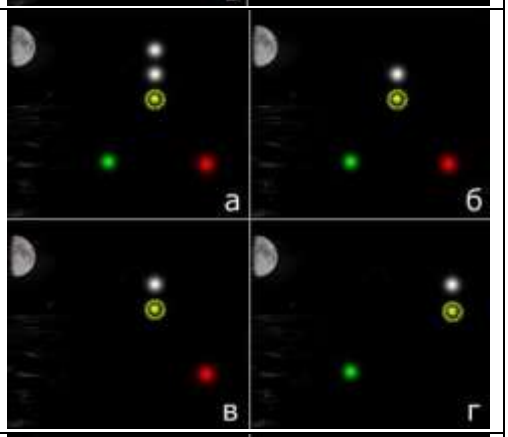 |
| МТ.1.2.49 | На какой иллюстрации изображен левый борт судна с механическим двигателем, длиной менее 50 м, на ходу? | 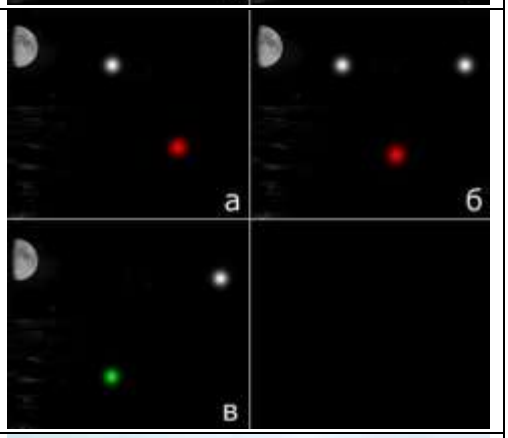 |
| МТ.1.2.50 | При какой длине буксира выставляется изображенное на иллюстрации знак на судне с механическим двигателем, занятом буксировкой? | |

| | | |
|---|---|---|
| МТ.1.2.51 | Что означает флаг, изображенный на иллюстрации? | |
| МТ.1.2.52 | Что означает флаг, изображенный на иллюстрации? | |
| МТ.1.2.53 | Что означает флаг, изображенный на иллюстрации? | |
| МТ.1.2.54 | Что означает флаг, изображенный на иллюстрации? |  |

| | | |
|---|---|---|
| МТ.1.2.55 | Какое должностное лицо в морском порту отвечает за безопасность мореплавания в порту и на подходах к нему? | |
| МТ.1.2.56 | Огни какого судна наблюдаются на иллюстрации? | |
| МТ.1.2.57 | Какое судно считается, согласно МППСС-72, обгоняющим? |   |
| МТ.1.2.58 | Огни какого судна показаны на иллюстрации |  |
| МТ.1.2.59 | Каковы действия судна, когда, находясь в районе ограниченной видимости, оно не может предотвратить чрезмерного сближения с другим судном, находящимся впереди траверза? |   |

| | | |
|---|---|---|
| МТ.1.2.60 | В ночное время Вы наблюдаете огни судна с механическим двигателем на ходу, у которого виден также круговой проблесковый желтый огонь. Что это за судно? | |
| МТ.1.2.61 | Кормовой огонь судна установлен таким образом, чтобы светить от направления прямо по корме до (?) в сторону каждого борта | 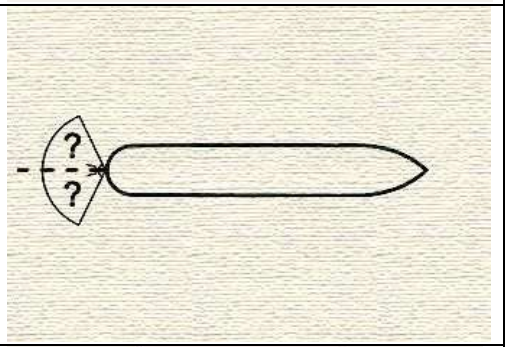 |
| МТ.1.2.62 | Два парусных судна идут разными галсами, опасно сближаясь друг с другом. Какие взаимные обязанности установлены между ними согласно Правил? | |
| МТ.1.2.63 | Где должно находиться судно во время следования узким проходом или фарватером | |
| МТ.1.2.64 | Какое утверждение является правильным в отношении подачи звуковых сигналов при нахождении вашего судна вблизи района с ограниченной видимостью | |
| МТ.1.2.65 | Какое значение имеют три шара, расположенные по вертикальной линии? | |

| | | |
|---|---|---|
| МТ.1.2.66 | Какие из перечисленных состояний судна подпадают под термин «НА ХОДУ»? | |
| МТ.1.2.67 | Бортовой огонь светит от направления прямо по носу и до (?) позади траверза | 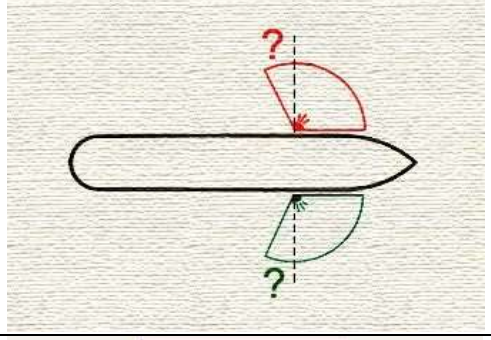 |
| МТ.1.2.68 | У обгоняемого судна ночью с обгоняющего могут наблюдаться только … | |
| МТ.1.2.69 | Каковы ваши действия в ответ на один продолжительный звуковой сигнал, который слышен из-за крутого изгиба фарватера? | |
| МТ.1.2.70 | Огни какого судна показаны на иллюстрации? |  |
| МТ.1.2.71 | Каковы обязанности судна, которое, согласно МППСС, не должно затруднять движение или безопасный проход другого судна | |

| | | |
|---|---|---|
| МТ.1.2.72 | Два парусных судна идут одним и тем же галсом, опасно сближаясь друг с другом. Какие взаимные обязанности установлены между ними согласно Правил? | |
| МТ.1.2.73 | Судно с механическим двигателем длиной менее 7 м, имеющее максимальную скорость не более 7 узлов | |
| МТ.1.2.74 | Огонь какого судна наблюдаются на иллюстрации | |
| МТ.1.2.75 | Какой из указанных знаков поднимается, когда судно становится на якорь |  |
| МТ.1.2.76 | Когда заканчивается обязанность обгоняющего судна по отношению к обгоняемому держаться от него в стороне? | |
| МТ.1.2.77 | Какое из указанных судов должно подавать звуковые сигналы при ограниченной видимости через промежуток времени не более 2 минут три последовательных звука, а именно - один продолжительный и в след за ним два коротких? |  |

| | | |
|---|---|---|
| МТ.1.2.78 | Бортовой огонь освещает дугу горизонта | 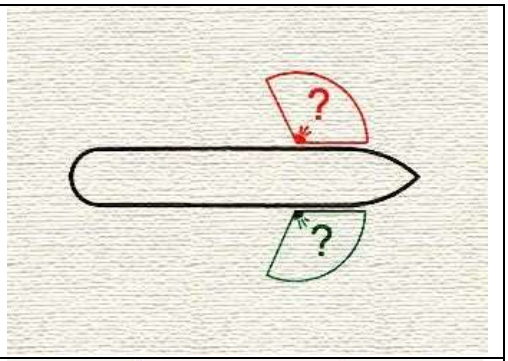  |
| МТ.1.2.79 | Опасность столкновения считается существующей, если |   |
| МТ.1.2.80 | Какое из приведенных ниже утверждений в отношении термина "НА ВИДУ ДРУГ У ДРУГА" соответствует Правилам? |   |
| МТ.1.2.81 | Огни какого судна показаны на иллюстрации? |  |
| МТ.1.2.82 | Кому НЕ уступает дорогу парусное судно? |   |

| | | |
|---|---|---|
| МТ.1.2.83 | Следуя в районе ограниченной видимости или вблизи такого района, парусное судно должно подавать |  |
| МТ.1.2.84 | В темное время суток Вы обнаружили огни судна, указанные на иллюстрации?. Какие ограничения в отношении минимального расстояния расхождения с таким судном существуют в МППСС-72 | |
| МТ.1.2.85 | Знаки какого судна указаны на иллюстрации? | |
| МТ.1.2.86 | При следовании в системе разделения движения (или при ее пересечении) парусное судно |  |
| МТ.1.2.87 | Пересекая курс по носу грузового судна так, как показано на фотографии, маломерное судно | |

| | | |
|---|---|---|
| МТ.1.2.88 | Комбинированный фонарь, в котором выставляются бортовые огни, используют | |
| МТ.1.2.89 | Правило, относящееся к обгону, применяется, когда суда находятся | |
| МТ.1.2.90 | В открытом море опасно сближаются на пересекающихся курсах парусное судно и судно, занятое ловом рыбы, которое наблюдает парусник со своего правого борта. Каковы взаимные обязанности судов? | |
| МТ.1.2.91 | В каких районах применяются МППСС-72 | |
| МТ.1.2.92 | Следуя в тумане Вы обнаружили на иллюстрации? РЛС слева, впереди траверза, эхо-сигнал судна и установили, что развивается ситуация опасного сближения с ним. Какое утверждение является правильным? | |

| | | |
|---|---|---|
| МТ.1.2.93 | Следуя в плохую видимость, вы неожиданно услышали туманный сигнал другого судна по-видимому впереди своего траверза. Вы должны | |
| МТ.1.2.94 | При каком численном значении видимость считается ограниченной | |
| МТ.1.2.95 | Какое значение имеют огни, указанные на рисунке | |
| МТ.1.2.96 | Судно с механическим двигателем длиной менее 12 м | |
| МТ.1.2.97 | Огни какого судна наблюдаются на иллюстрации? | |

| | | |
|---|---|---|
| МТ.1.2.98 | Какое из приведенных ниже судов подпадает под термин «СУДНО, ОГРАНИЧЕННОЕ В ВОЗМОЖНОСТИ МАНЕВРИРОВАТЬ» |  |
| МТ.1.2.99 | Огни какого судна показаны на иллюстрации?? | |
| МТ.1.2.100 | Какой знак выставляет в дневное время судно с механическим двигателем, занятое буксировкой с кормы, если длина буксира, измеренная от кормы буксирующего судна до кормы буксируемого, превышает 200м |  |
| МТ.1.2.101 | Огни какого судна наблюдаются на иллюстрации? | |
| МТ.1.2.102 | Судно, которому уступают дорогу в условиях на виду друг у друга … |  |
| МТ.1.2.103 | Какой знак в дневное время выставляет судно, идущее под парусом, и, в то же время, приводимое в движение механической установкой | 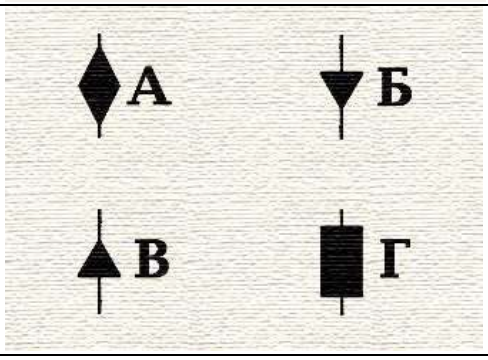 |

| | | |
|---|---|---|
| МТ.1.2.104 | При плавании в районе системы разделения движения парусное судно |  |
| МТ.1.2.105 | Какой из приведенных знаков несет судно, занятое тралением | 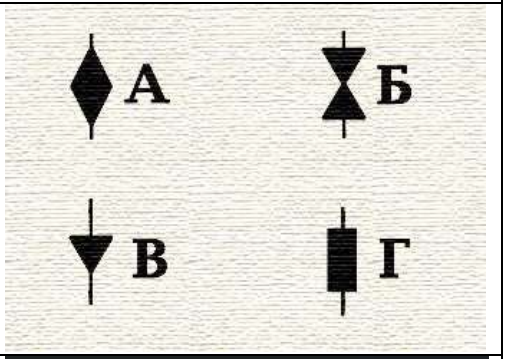 |
| МТ.1.2.106 | Огни какого судна показаны на иллюстрации? | |
| МТ.1.2.107 | Какова дуга горизонта, которую освещает топовый огонь судна | 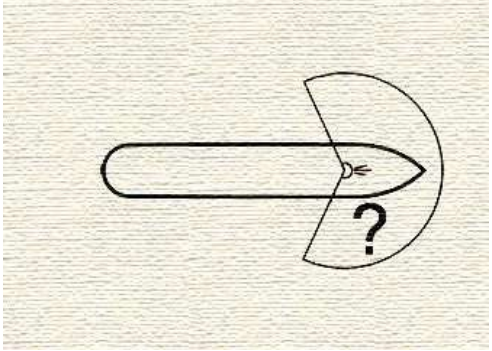 |
| МТ.1.2.108 | В открытом море, ночью, Вы приближаетесь к судну, у которого виден кормовой огонь. Временами открывается его бортовой огонь, при этом кормовой огонь перестает быть виден. Вы должны | |
| МТ.1.2.109 | Какое судно не должно выставлять топовые огни, когда оно на ходу и имеет ход относительно воды |  |

| | | |
|---|---|---|
| МТ.1.2.110 | Кому уступает дорогу судно с механическим двигателем на ходу? |  |
| МТ.1.2.111 | Огни какого судна наблюдаются на иллюстрации? | |
| МТ.1.2.112 | Огни какого судна показаны на иллюстрации? | |

**МТ.1.3. Вопросы административной ответственности за нарушение правил плавания**

| № | Вопрос | Иллюстрация |
|---|---|---|
| МТ.1.3.1 | На какой срок задерживается маломерное судно при совершении административного правонарушения? | |
| МТ.1.3.2 | Какой срок отводится Кодексом Российской Федерации об административных правонарушениях для уплаты административного штрафа? | |

| | | |
|---|---|---|
| МТ.1.3.3 | Какое административное наказание предусматривается за нарушение лицом, управляющим маломерным судном, правил маневрирования? | |
| МТ.1.3.4 | Какое административное наказание предусмотрено за управление маломерным судном, не зарегистрированным в установленном порядке? | |
| МТ.1.3.5 | Какое административное наказание предусматривается за несоблюдение лицом, управляющим маломерным судном, установленной скорости? | |
| МТ.1.3.6 | Какое административное наказание предусматривается за управление маломерным судном, судоводителем, не имеющем при себе судового билета? | |
| МТ.1.3.7 | Какое административное наказание предусмотрено за управление маломерным судном судоводителем или иным лицом, находящимся в состоянии опьянения? | |

| | | |
|---|---|---|
| МТ.1.3.8 | Какое административное наказание предусматривается за несоблюдение лицом, управляющим маломерным судном, требований навигационных знаков? | |
| МТ.1.3.9 | Какое административное наказание лица, управляющего маломерным судном, предусматривается за преднамеренную остановку или стоянку судна в запрещенных местах? | |
| МТ.1.3.10 | В течение какого срока гражданин, в отношении которого вынесено административное наказание, имеет право обжаловать постановление по делу об административном правонарушении? | |
| МТ.1.3.11 | В течение какого срока собственник маломерного судна обязан сообщить в орган государственной регистрации судна о любом изменении сведений, внесенных в реестр маломерных судов? | |
| МТ.1.3.12 | Кем выносится постановление о лишении права управления маломерным судном? | |

| | | |
|---|---|---|
| МТ.1.3.13 | Какое административное наказание предусмотрено за превышение установленной скорости? | |
| МТ.1.3.14 | Какое административное наказание предусматривается за нарушение правил маневрирования? | |
| МТ.1.3.15 | Какое административное наказание предусмотрено за управление маломерным судном, не несущим бортовых номеров? | |
| МТ.1.3.16 | Какое административное наказание предусмотрено за преднамеренную остановку маломерного судна в запрещенном месте? | |
| МТ.1.3.17 | При совершении административного правонарушения, влекущего задержание маломерного судна, оно задерживается на время: | |

| | | |
|---|---|---|
| МТ.1.3.18 | Какое административное наказание предусмотрено за передачу управления маломерным судном лицу, не имеющему на это права? | |
| МТ.1.3.19 | Какое административное наказание предусмотрено за управление маломерным судном с нарушением ограничений по району плавания? | |
| МТ.1.3.20 | Какое административное наказание предусмотрено за несоблюдение лицом, управляющим маломерным судном, установленной скорости? | |
| МТ.1.3.21 | Какой срок отводится Кодексом Российской Федерации об административных правонарушениях для уплаты административного штрафа? | |
| МТ.1.3.22 | Какое административное наказание предусмотрено за управление маломерным судном с нарушением ограничений по условиям плавания? | |

| | | |
|---|---|---|
| МТ.1.3.23 | Какое административное наказание предусмотрено за управление маломерным судном, не прошедшим технического освидетельствования? | |
| МТ.1.3.24 | Какое административное наказание предусмотрено за преднамеренную остановку или стоянку маломерного судна под судоходным пролетом моста? | |
| МТ.1.3.25 | Какое административное наказание предусматривается за несоблюдение лицом, управляющим маломерным судном, требований навигационных знаков? | |
| МТ.1.3.26 | В течение какого времени судоводитель имеет право обжаловать постановление по делу об административном правонарушении со дня получения копии постановления? | |
| МТ.1.3.27 | За какое из перечисленных нарушений государственный инспектор по маломерным судам имеет право задержать маломерное судно и поместить его на специализированную стоянку для хранения? | |

| | | |
|---|---|---|
| МТ.1.3.28 | За какое из перечисленных нарушений государственный инспектор по маломерным судам имеет право отстранить судоводителя от управления и поместить маломерное судно на стоянку и хранение? | |
| МТ.1.3.29 | Какое административное наказание предусмотрено за эксплуатацию маломерного судна, у которого содержание загрязняющих веществ в выбросах превышает установленные государственными стандартами нормативы? | |
| МТ.1.3.30 | Какое административное наказание предусмотрено за утерю или утрату судового билета маломерного судна? | |
| МТ.1.3.31 | Какое административное наказание предусмотрено за преднамеренную остановку или стоянку судна в запрещенных местах? | |
| МТ.1.3.32 | Какое административное наказание предусмотрено за утерю или утрату удостоверения на право управления маломерным судном? | |

| | | |
|---|---|---|
| МТ.1.3.33 | Какое административное наказание предусматривается за управление маломерным судном, не зарегистрированным в установленном порядке? | |
| МТ.1.3.34 | Какое административное наказание предусмотрено за управление судном судоводителем или иным лицом, находящимся в состоянии опьянения? | |
| МТ.1.3.35 | Какое административное наказание предусмотрено за передачу управления маломерным судном лицу, не имеющему при себе удостоверения на право управления маломерным судном? |   |
| МТ.1.3.36 | Какое административное наказание предусмотрено за управление маломерным судном судоводителю, не имеющему при себе судового билета маломерного судна или его копии, заверенной в установленном порядке, а равно документов, подтверждающих право владения, пользования или распоряжения управляемым им судном в отсутствие владельца? | |

**МТ.1.4. Вопросы эксплуатации маломерных судов и управления ими**

| № | Вопрос | Иллюстрация |
|---|---|---|
| МТ.1.4.1 | При каком условии можно перевозить на маломерном судне детей дошкольного возраста? |  |

| | | |
|---|---|---|
| МТ.1.4.2 | При каком условии маломерному судну можно заходить и маневрировать на акватории пляжей? | |
| МТ.1.4.3 | Кто допускается к управлению маломерным судом? | |
| МТ.1.4.4 | Какой из маневров на моторной лодке "А" является наиболее эффективным, чтобы уступить дорогу катеру "Б"? | |
| МТ.1.4.5 | Какому из маломерных судов должно уступить дорогу маломерное судно "А"? | |
| МТ.1.4.6 | Какому из маломерных судов должно уступить дорогу маломерное судно "Б"? | |

| | | |
|---|---|---|
| МТ.1.4.7 | В каких случаях моторное маломерное судно должно уступить дорогу гребной лодке? | |
| МТ.1.4.9 | Какие действия должен предпринять судоводитель маломерного судна "А" для безопасного расхождения? | |
| МТ.1.4.10 | Какие действия должны предпринять судоводители маломерных моторных судов "А" и "Б" для безопасного расхождения при встречном движении (плавании)? | |
| МТ.1.4.11 | Как должны расходиться изображенные на иллюстрации суда? | |
| МТ.1.4.12 | В каком из перечисленных случаев маломерному судну разрешается маневрировать на акватории пляжа? | |

| | | |
|---|---|---|
| МТ.1.4.13 | В чьи обязанности входит проведение инструктажа пассажиров по правилам поведения на маломерном судне во время плавания? | |
| МТ.1.4.14 | Какие документы во время плавания должен иметь при себе судоводитель моторного маломерного судна, если он сам управляет этим судном? | |
| МТ.1.4.15 | Какие документы во время плавания должен иметь при себе судоводитель маломерного судна, если он не является владельцем этого судна? | |
| МТ.1.4.16 | При каких условиях разрешается пересадка людей с одного судна на другое во время движения? | |
| МТ.1.4.17 | При наличии какой из перечисленных неисправностей пользование маломерным судном запрещается? | |

| | | |
|---|---|---|
| МТ.1.4.18 | При наличии какой из перечисленных неисправностей пользование маломерным судном запрещается? | |
| МТ.1.4.19 | При наличии какой из перечисленных неисправностей пользование маломерным судном запрещается? | |
| МТ.1.4.20 | При наличии какой из перечисленных неисправностей пользование маломерным судном запрещается? | |
| МТ.1.4.21 | При наличии какой из перечисленных неисправностей пользование маломерным судном запрещается? | |
| МТ.1.4.22 | При наличии какой из перечисленных неисправностей пользование маломерным судном запрещается? | |

| | | |
|---|---|---|
| МТ.1.4.23 | Какой орган может отменить право собственности на маломерное судно, зарегистрированное в судовой книге? | |
| МТ.1.4.24 | В течение какого срока действует удостоверение на право управления маломерным судном с момента его выдачи? | |
| МТ.1.4.25 | Как должно осуществляться маневрирование маломерных судов при расхождении на водных объектах, не имеющих навигационной обстановки? | |
| МТ.1.4.26 | Какие из перечисленных документов судоводители маломерных судов обязаны предъявлять для проверки государственному инспектору по маломерным судам? | |